وزارة التعليم
وكالة التعليم العام
إدارة قياس التحصيل المعرفي

أسئلة اختبارات مهاراتي

رياضيات – الثاني الابتدائي

١٤٤٤هـ

أسئلة اختبار مهاراتي ١

المادة	رياضيات
المرحلة التعليمية	الابتدائية
الصف الدراسي	الثاني الابتدائي

اقرأ الأسئلة ثم اختر الإجابة الصحيحة من بين الخيارات المتاحة:

م	المهارة	وصف وترتيب الحوادث والأشياء والأماكن باستعمال قبل، بعد.
١	الحصان الذي يسير بعد الأحصنة الأخرى هو؟	
أ.		
ب.		
ج.		

م	المهارة	قراءة وكتابة العدد صفر.		
٢	كمْ عَدَدَ الأسماك في الوعاء الأخير؟			
	أ- ٤	ب- ٢	ج- صفر	

م	المهارة	المقارنة بين السعات وترتيبها.		
٣	أيُ الأشكال الآتية سَعَتُهُ أَقَلُّ؟			
	أ-	ب-	ج-	

م	المهارة	استعمال التقابل لتحديد أي المجموعات أكثر أو أقل من الأخرى.		
٤	عَدَد حَبَاتُ الجَزَر ..... عدد الارانب.			
	أ. أكثر من	ب. أقل من	ج. يساوي	

م	المهارة	العد بالعشرات حتى ١٠٠.		
٥	لَدَى شَيْمَاءَ ٤ مَجْمُوعَاتٍ في كُل مَجْموعَةٍ ١٠ أَقْلاَمٍ. إذَا أَعْطَتْ صَدِيقَتَهَا ١٠ أَقْلَامٍ، فَكَمْ قَلَمًا يبْقَى لَدَيهَا؟			
	أ. ٤٠ قَلَمًا	ب. ٣٠ قَلَمًا	ج. ٢٠ قَلَمًا	

م	المهارة	تحديد أنماط الأشياء وتوسيعها، وأنشاؤها.		
٦	الزر التالي في النمط هو؟			
	أ.	ب.	ج.	

م	المهارة	التعبير عن الأجزاء المتطابقة من شكل ما بالثلث أو الربع.		
٧	ما الكَسْر الذِي يُمَثلُ الجُزْءَ المَأْكُولَ في الشكل أدناه؟			
	أ. $\frac{١}{٤}$	ب. $\frac{١}{٣}$	ج. $\frac{١}{٢}$	

أجب بـ صح أو خطأ على الأسئلة الآتية:

م	المهارة	مقارنة قيم النقود بأسعار السلع.	الإجابة الصحيحة
٨	هَلْ تَكْفِي هذِهِ النُقودُ لِشِراءِ اللعبةَ؟		لا

م	المهارة	استعمال الأعداد الترتيبية لوصف موقع شيء في صف.
٩	ضع علامة X على البطة الرابعة في الشكل أدناه: 	
أ.		
ب.	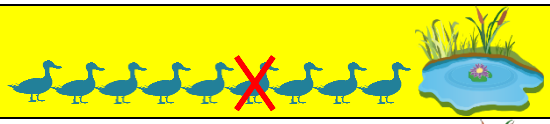	
ج.	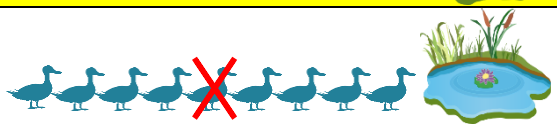	

م	المهارة	كتابة حقائق الجمع أفقياً ورأسياً.		
١٠	ناتج الجمع:  ___ + ___ = ___			
	أ. ٦ + ١ =٧	ب. ٦+ ٠ = ٦	ج. ٧ + ١ =٨	

م	المهارة	استعمال خطة أرسم صورة لحل المسائل.		
١١	لدى ناصرٍ ٧ جَزَراتٍ، أعْطَى صَدِيقَهُ بَعْضًا مِنْهَا، فَبَقِيَ مَعَهُ ٣ جَزَراتٍ. كَمْ جَزَرَةً أَعْطَى صَدِيقَهُ؟			
	أ- ٣	ب- ٤	ج- ٥	

م	المهارة	عد الأعداد حتى ٢٠ ومقارنتها لتحديد أي المجموعات أكثر عددًا، وأيهما أقل عددًا، وأيهما له العدد نفسه.		
١٢	أي المجموعات الآتية لها نفس العدد: 			
	أ- 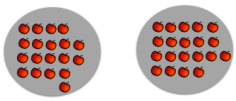	ب- 	ج.	

م	المهارة	المقارنة بين عددين ضمن ١٠٠.		
١٣	أكتب: > ، أو < ، أو = في ◯ ٦٠ ◯ ٥٩			
	أ. ٦٠ (=) ٥٩	ب. ٦٠ (<) ٥٩	ج. ٦٠ (>) ٥٩	

م	المهارة	كتابة جمل جمع باستعمال إشارتي الجمع والمساواة.		
١٤	جملة الجمع الصحيحة هي:			
	أ. ٣ + ٢ = ٥	ب. ٣ + ٥ = ٨	ج. ٣ + ٣ = ٦	

م	المهارة	كتابة جمل الطرح باستعمال إشارتي الجمع والمساواة.		
١٥	جُمْلَةَ الطْرح الصَحيحةَ هي: 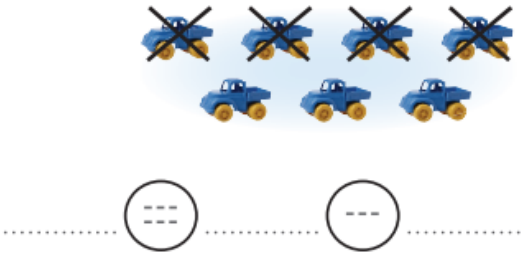			
	أ) ٤ – ٣ = ١	ب) ٧ – ٣ = ٤	ج) ٧ – ٤ = ٣	

م	المهارة	تقدير الأعداد ضمن ١٠٠.		
١٦	قَدر العَدَدَ، ثم أوجد العَدَدَ الحقيق: 			
	أ) التقدير: ١٠ العدد الحقيقي: ١٥	ب) التقدير: ٢٠ العدد الحقيقي: ١٨	ج) التقدير: ٣٠ العدد الحقيقي: ٢٧	

م	المهارة	تكوين العدد ٥.		
١٧	إذا كانت القُبَعات تمثل طريقة لتكوين العدد ٥. أي من الخيارات الآتية تُمثل طريقة أخرى لتكوين العدد ٥؟			
	أ. 	ب. 	ج. 	

م	المهارة	استعمال خط الأعداد لإيجاد ناتج الجمع.		
١٨	الجُمْلَةُ الَّتي تُمَثلُ الشَّكلَ هي: 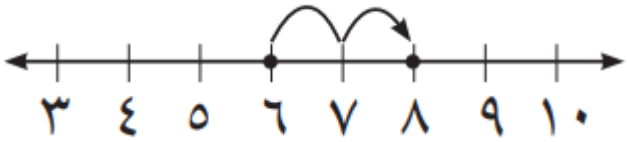			
	أ. ٦ + ٢ = ٨	ب. ٢ + ٨ = ١٠	ج. ٧ + ٢ = ٩	

م	المهارة	ترتيب الأعداد من صفر إلى ١٠ باستعمال الصور التوضيحية.		
١٩	العدد المفقود في ☐ يساوي: 			
	أ. ٦	ب. ٥	ج. ٢	

م	المهارة	ترتيب الأعداد من صفر إلى ٢٠ باستعمال خط الأعداد.		
٢٠	العدد المفقود خلف الورقة هو: 			
	أ) ٩	ب) ٧	ج) ١١	